Buzullardaki Penguenleri Say

Her buzuldaki penguenleri parmağınla tek tek say. Sonra buzulu, sağdaki aynı sayıya bir çizgiyle bağla.

1 PENGUENLERİ SAY, SAYIYA ÇİZGİ ÇEK

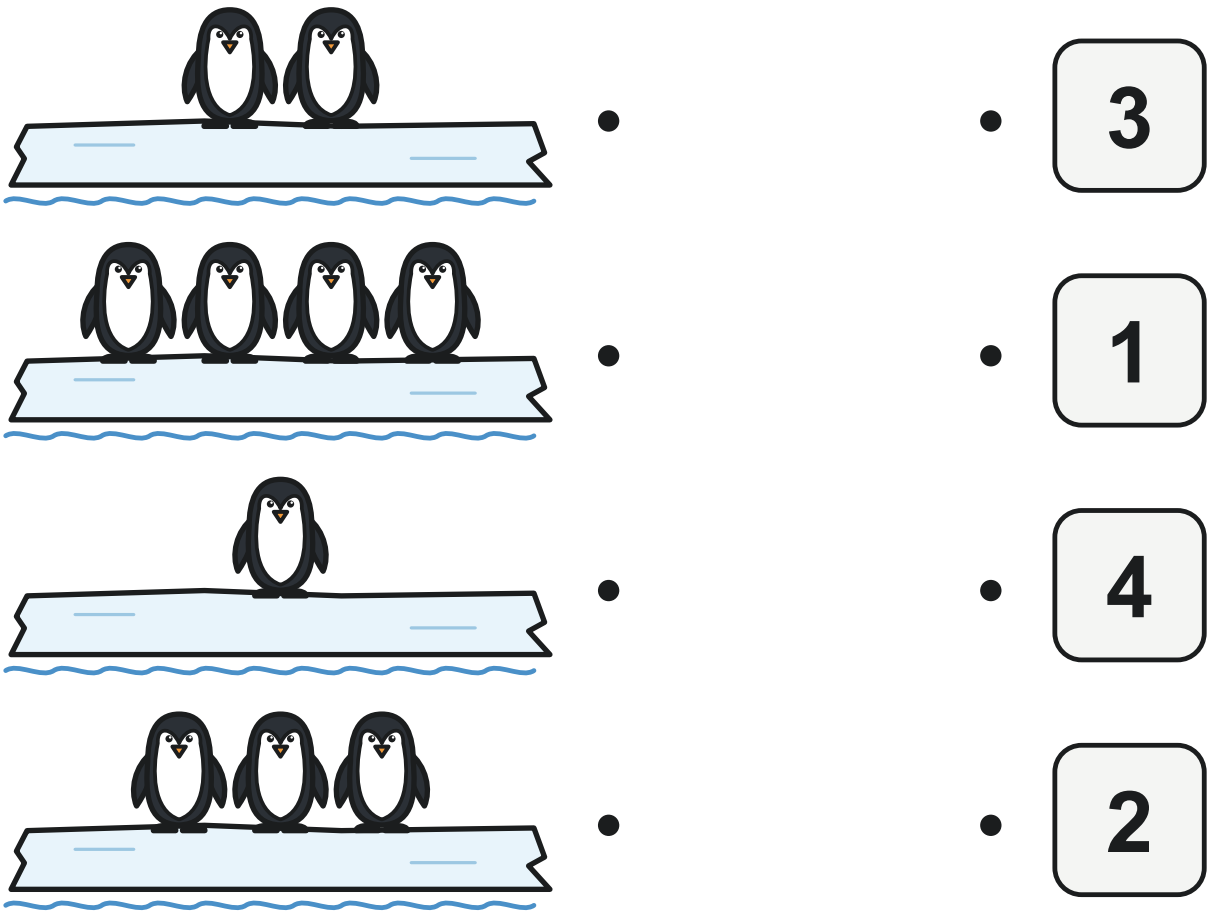

2 HANGİ BUZULDA DAHA AZ PENGUEN VAR?

İki buzuldaki penguenleri say. Penguen sayısı daha az olan buzulun altındaki kutuya çarpı koy. Sonra penguen sayısı çok olan buzulu maviye boya.

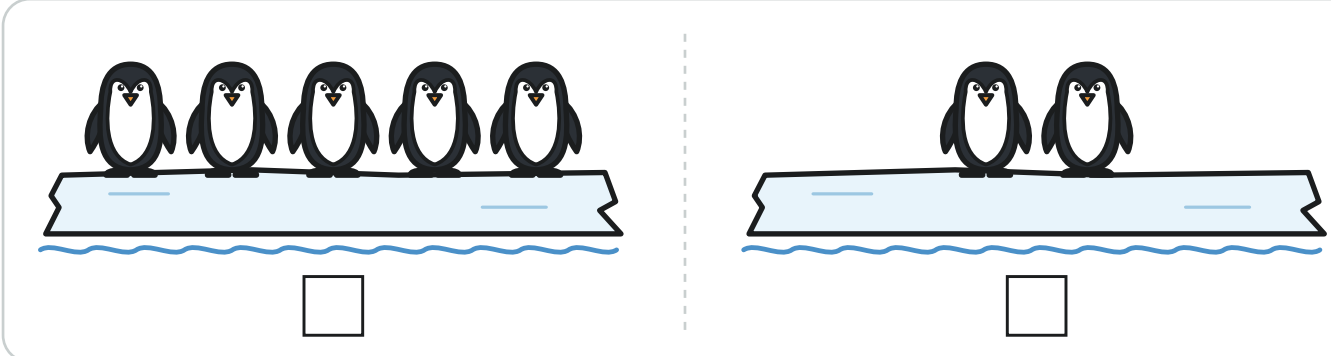

Penguenleri Buzula Yerleştir

Penguen kartlarını yetişkin eşliğinde kes. Her buzulun tabelasındaki sayıya bak ve buzula o sayı kadar penguen yapıştır.

1 TABELADAKİ SAYI KADAR PENGUEN YAPIŞTIR

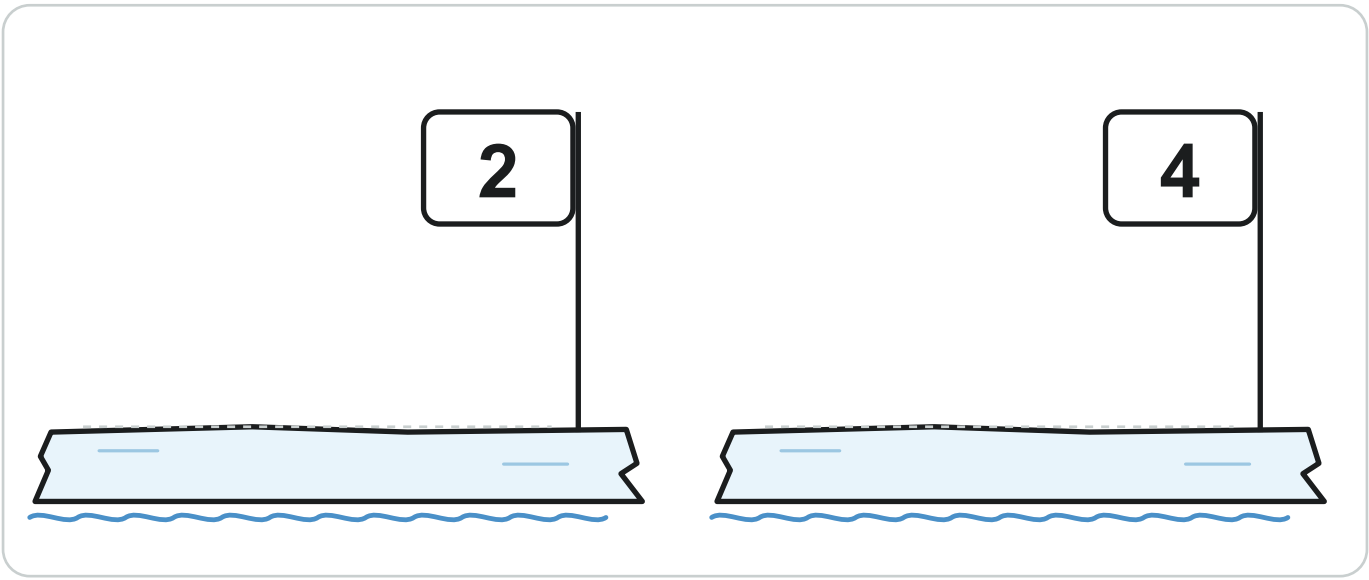

Kesilecek penguen kartları:



2 PENGUENLER ACIKTI: SAYI KADAR BALIK BOYA

Kutudaki sayıya bak. Penguen o sayı kadar balık yiyecek. O sayı kadar balığı boya.

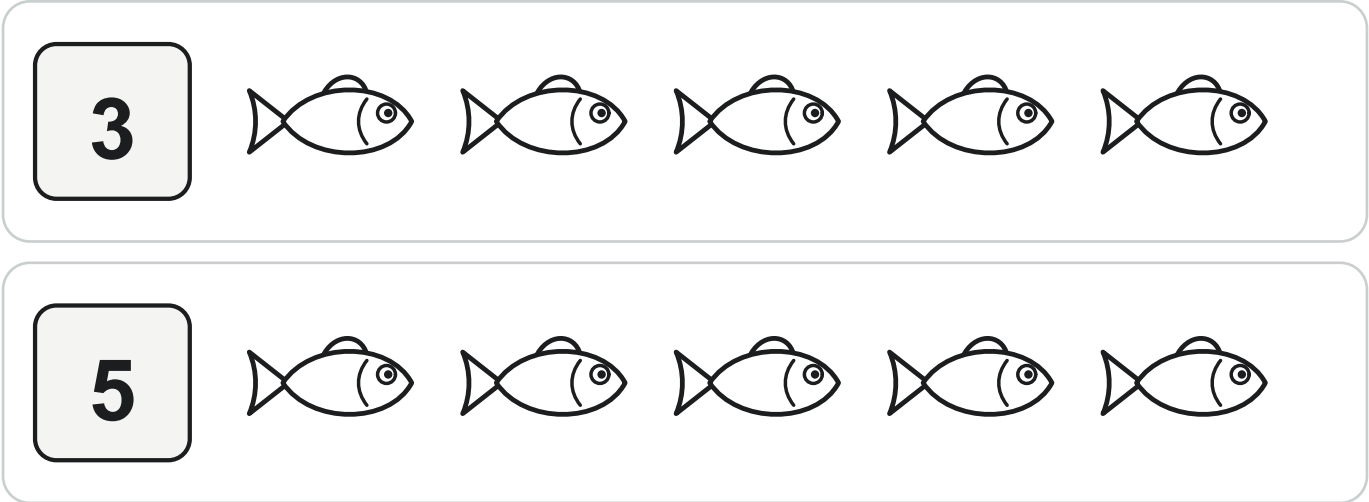

Cevap anahtarı ve yetişkin notu

Okul öncesi matematik · 1–5 arası nesne sayma, sayı ile miktarı eşleştirme, az–çok karşılaştırma ve sayı kadar nesne yerleştirme. Tüm çizimler Daykan için özgün hazırlandı.

1. Penguenleri say: Yukarıdan aşağıya buzullarda 2, 4, 1 ve 3 penguen vardır. Sağdaki sayılar karışık sırada verilmiştir (3, 1, 4, 2). Doğru eşleşmeler: 2 penguenli buzul – 2, 4 penguenli buzul – 4, 1 penguenli buzul – 1, 3 penguenli buzul – 3. Çocuk saydığı her penguene parmağıyla bir kez dokunmalıdır.

2. Hangi buzulda daha az: Soldaki buzulda 5, sağdaki buzulda 2 penguen vardır. Sağdaki buzulun altındaki kutuya çarpı konur; soldaki (çok olan) buzul maviye boyanır. “Daha az” ifadesini somutlaştırmak için iki gruptaki penguenleri birebir eşleyerek hangisinin önce bittiğini gösterebilirsiniz.

3. Penguenleri yerleştir: Tabelasında 2 yazan buzula 2, tabelasında 4 yazan buzula 4 penguen yapıştırılır; altı kartın hepsi kullanılır. Kesme bölümünde bir yetişkin eşlik etmelidir; gerekirse kartları yetişkin keser.

4. Balık boyama: Üst sırada 3, alt sırada 5 balık boyanır; hangi balıkların boyandığı önemli değildir. Oyunu masada düğme ya da kapaklarla tekrarlayabilirsiniz: Bir sayı söyleyin, çocuk o kadar nesneyi “buzula” (bir kâğıda) koysun. Bu çalışma ev ödevi değildir.